NAMA:.. Tingkatan :.............................

SULIT
1223/1
Pendidikan Islam
Kertas 1
Ogos
2010
2 jam

BAHAGIAN PENGURUSAN
SEKOLAH BERASRAMA PENUH DAN SEKOLAH KLUSTER
KEMENTERIAN PELAJARAN MALAYSIA

PEPERIKSAAN PERCUBAAN
SIJIL PELAJARAN MALAYSIA 2010

PENDIDIKAN ISLAM

Kertas 1

Dua jam

JANGAN BUKA KERTAS SOALAN INI SEHINGGA DIBERITAHU

1. *Kertas soalan ini mengandungi* **dua** *bahagian*. **Bahagian A** *dan* **Bahagian B.**
2. **Bahagian A** *mengandungi 40 soalan. Jawapan hendaklah ditulis pada ruangan yang disediakan di halaman 12.*
3. **Bahagian B** *mengandungi* **empat** *soalan subjektif. Jawab* **tiga** *soalan* : **Soalan 1**, **Soalan 2 wajib** *dan mana-mana* **satu** *soalan berikutnya. Jawapan hendaklah ditulis dalam buku jawapan yang dibekalkan oleh pengawas peperiksaan.*
4. *Tulis* **nombor kad pengenalan** dan **angka giliran** *anda pada ruangan yang disediakan di halaman 11.*
5. *Ceraikan kertas jawapan* **Bahagian A** *dan ikat bersama-sama dengan kertas jawapan* **Bahagian B.**

Kertas soalan ini mengandungi 12 halaman bercetak

1223/1 © 2010 Hak Cipta Sekolah Berasrama Penuh

Dapatkan Skema Jawapan di : www.banksoalanspm.com

Bahagian A

[40 markah]

Jawab **semua** soalan

Soalan 1 hingga **Soalan 20**

Tiap-tiap soalan diikuti oleh empat pilihan jawapan **A, B, C** *dan* **D**. **Hitamkan** *jawapan yang tepat pada ruangan jawapan yang disediakan*

1 | Ahmad merasa kagum terhadap dirinya sendiri kerana mampu melakukan amalan solat tahajjud setiap malam |

Pernyataan di atas merujuk kepada

A Syirik Khafi
B Dosa besar
C Dosa kecil
D Syirik Jali

2 Puak Syiah yang dianggap paling radikal dan sesat ialah...

A Khawarij
B Imamiah
C Batiniah
D Zaidiah

3 | "... tidak boleh berdiri (pada hari kiamat) melainkan seperti berdiri orang yang dirasuk oleh syaitan..."
Al-Baqarah :275 |

Maksud firman Allah di atas merupakan balasan yang disediakan Allah di hari akhirat bagi mereka yang melakukan dosa

A Mengumpat
B Mencuri
C Fitnah
D Riba

 © 2010 Hak Cipta Sekolah Berasrama Penuh

Dapatkan Skema Jawapan di : www.banksoalanspm.com

4 Siapakah yang bertanggungjawab menyebarkan ajaran Qadiani di Malaysia?

A Yan Kee Leong
B Haji Muhammad Matahari
C Hussein Ali al-Mazandarani
D Maulana Muhammad Sadiq bin Barakatullah

5 Dipotong kaki dan tangan secara bersilang merupakan hukuman bagi kesalahan

A Membunuh dengan tak sengaja
B Merompak dengan kekerasan
C Mencuri dan mencederakan
D Merompak dan membunuh

6 Pilih pernyataan yang **benar** tentang bilangan kambing bagi ibadat akikah.

I Sunat disembelih seekor kambing untuk seorang anak lelaki
II Sunat disembelih dua ekor kambing untuk seorang anak lelaki
III Sunat disembelih seekor kambing untuk seorang anak perempuan
IV Sunat disembelih dua ekor kambing untuk seorang anak perempuan

A I dan II
B I dan III
C II dan III
D III dan IV

7 Yang manakah bukan rukun Ijarah?

A Penyewa dan Pemberi sewa
B Ijab dan Qabul
C Bayaran sewa
D Manafaat

8

Sepanjang perkahwinan suami puan Zaiton tidak pernah memberi nafkah kepadanya

Apakah tindakan terbaik yang perlu dilakukan oleh Puan Zaiton?
A Menuntut cerai
B Menuntut Fasakh
C Mendakwa suami
D Menghadiri sesi kaunseling

Dapatkan Skema Jawapan di : www.banksoalanspm.com

9 Pilih perbezaan yang **benar** antara gadaian Islam dengan gadaian bukan Islam

	Gadaian Islam	Gadaian Bukan Islam
A	Barang gadaian menjadi hak pemilik asal	Barang gadaian akan lupus sekiranya tidak ditebus
B	Pembayaran mengikut nilai barang gadaian	Pembayaran mengikut nilai barang gadaian dan upah
C	Menguntungkan penggadai	Merugikan pemegang gadai
D	Ada unsur-unsur gharar	Tiada unsur gharar

10 Berikut adalah pernyataan berkaitan dengan kaifiat rujuk.

I Wajib disaksikan oleh dua orang saksi
II Lafaz rujuk tidak boleh berbentuk taklik
III Lafaz rujuk hendaklah diucapkan oleh suami
IV Rujuk boleh dilafazkan sama ada melalui lafaz kinayah atau sorih

A I, II dan III
B I, II dan IV
C I, III dan IV
D II, III dan IV

11 Memakai minyak rambut di kepala atau janggut merupakan perkara yang dilarang ketika ihram .

Apakah hikmah disebalik larangan tersebut?

A Supaya Jemaah lupa kepada kemewahan dunia ketika beribadah kepada Allah
B Untuk menguji keimanan dan kesabaran jemaah haji
C Menunjukkan manusia adalah sama di sisi Allah
D Untuk menghargai makhluk lain

12 Berikut adalah bidang kuasa mal bagi Mahkamah Syariah **kecuali**

A Wakaf dan nazar
B Nafkah dan penjagaan anak
C Kesalahan khalwat dan bersekedudukan
D Pertunangan, perkahwinan, perceraian dan fasakh

13 Manakah yang berikut adalah alasan bagi membolehkan suami berpoligami

I Untuk mendapatkan zuriat
II Mengelakkan suami berbuat maksiat
III Kerana perempuan lebih ramai daripada lelaki
IV Ketidakmampuan isteri melayan kehendak suami kerana penyakit

1223/1 © 2010 Hak Cipta Sekolah Berasrama Penuh

Dapatkan Skema Jawapan di : www.banksoalanspm.com

A I, II dan III
B I, II dan IV
C I, III dan IV
D II,III dan IV

14 Polisi pentadbiran pemerintahan Saidina Ali adalah ...

A Memerangi golongan murtad
B Menyusun semula pentadbiran tanah
C Menetapkan bacaan al-Quran menggunakan lahjah Qurais
D Menukarkan pegawai-pegawai yang berketurunan Umayyah

15 Siapakah khalifah Abbasiyah yang telah memerintahkan sekumpulan ahli falak muslim agar mengukur lilitan bumi ?

A Khalifah Harun Al-Rasyid
B Khalifah Jaafar Al-Mansur
C Khalifah Al-Makmun
D Khalifah Muawiyah

16 Apakah nama senjata yang digunakan untuk merempuh musuh yang ramai?

A Manjanik
B Dababah
C Barud
D Al-Karadis

17

• Dibuang negeri kerana dituduh terlibat dengan pemberontakan Urabi • Menerbitkan majalah Urwatul Wusqa • Mufti kerajaan Mesir

Pernyataan di atas merujuk kepada...

A Sheikh Jamaludin Al-Afghani
B Sheikh Tahir Jalaluddin
C Sheikh Mohd Abduh
D Sheikh Waliyullah

18

• Ihya' Ulumuddin • Al-Munqiz minal Dhalal • Al-Wajiz

Karya di atas adalah hasil nukilan...
A Imam Abu Hanifah Rahimahullah
B Imam Syafie Rahimahullah
C Imam Bukhari Rahimahullah
D Imam Ghazali Rahimahullah

Dapatkan Skema Jawapan di : www.banksoalanspm.com

19

اليَدُ العُليَا خَيرٌ مِنَ اليَدِ السُّفلَى

Hadis merujuk kepada amalan...
A Sedekah
B Jihad fi Sabilillah
C Ziarah orang sakit
D Menjaga kebersihan

20 Antara kepentingan memelihara alam sekitar adalah seperti yang berikut **kecuali**

A Melahirkan masyarakat yang prihatin
B Memastikan kehidupan yang harmoni dan selesa
C Mewujudkan persekitaran yang baik untuk perkembangan minda
D Mengelakkan penyebaran penyakit-penyakit yang memudharatkan rakyat

Soalan 21 hingga **Soalan 40**

Isi tempat kosong dengan jawapan yang sesuai.

21 Kita diseru agar sentiasa mengingatkan pesakit bahawa setiap penyakit merupakan .... daripada Allah.

Soalan 22 hingga **Soalan 23** berdasarkan rajah di bawah.
Lengkapkan tempat kosong dengan jawapan yang betul.

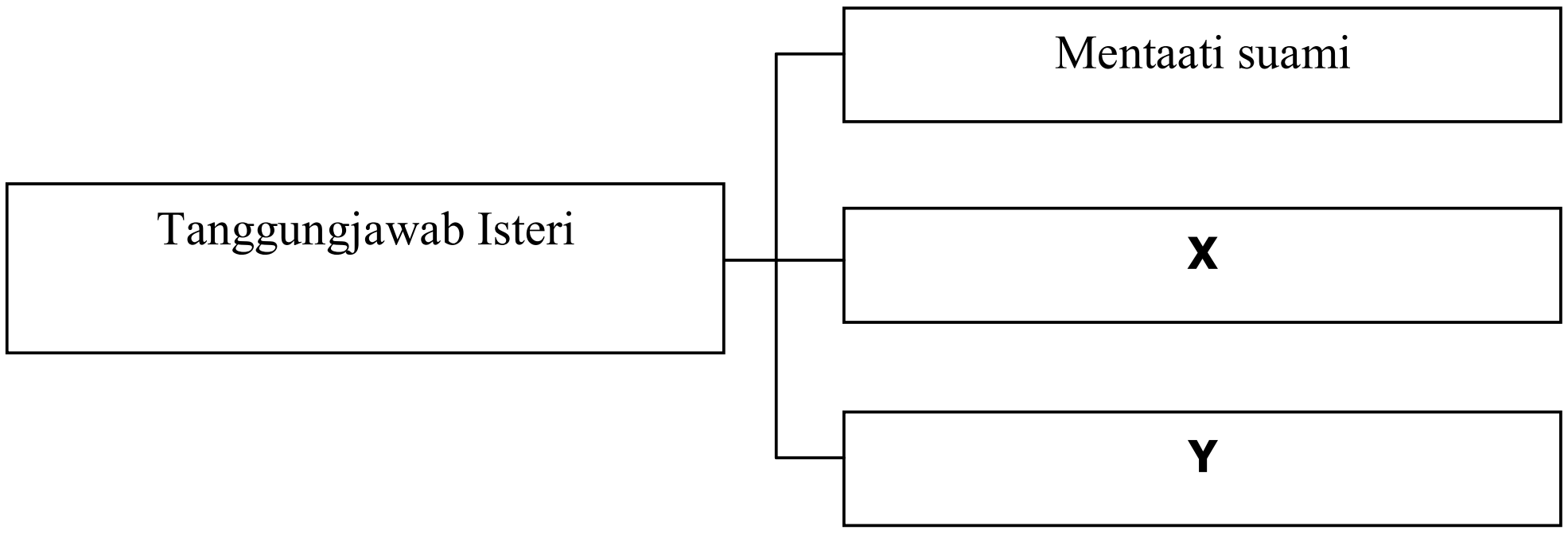

22 **X** dalam rajah di atas ialah ....

23 **Y** dalam rajah di atas ialah ....

1223/1 © 2010 Hak Cipta Sekolah Berasrama Penuh

Dapatkan Skema Jawapan di : www.banksoalanspm.com

24 Pemimpin wajib memastikan .... dapat ditegakkan dalam pentadbiran negara.

25 .... ialah perjanjian perkongsian antara dua pihak atau lebih terhadap sesuatu perkara

Soalan 26 hingga **Soalan 27** berdasarkan jadual di bawah.

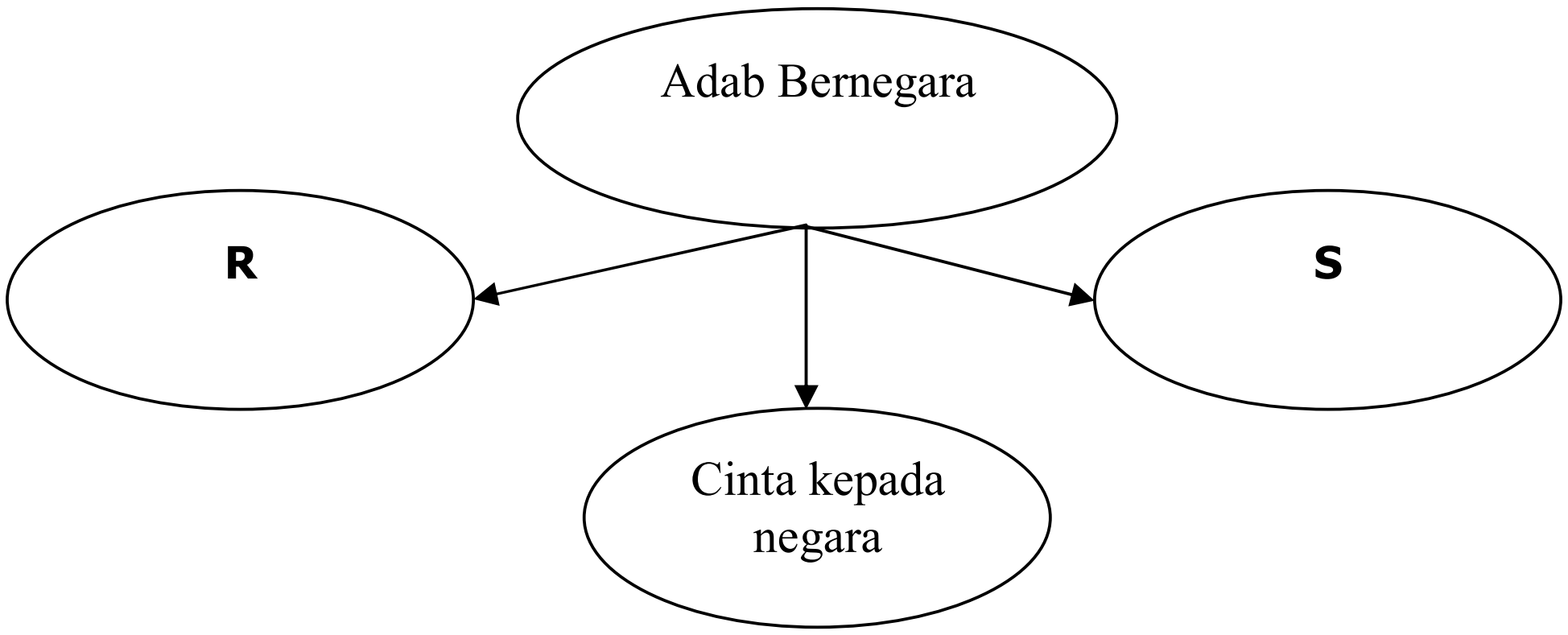

26 **R** dalam jadual di atas ialah ....

27 **S** dalam jadual di atas ialah ....

28 Gerakan yang diperjuangkan oleh Sheikh Tahir Jalaluddin di Tanah Melayu ialah ....

29 Menganggap Acre di Palestine sebagai kiblat baru merupakan ciri kesesatan ajaran..................

Soalan 30 hingga **Soalan 31** berdasarkan rajah di bawah.
Lengkapkan tempat kosong dengan jawapan yang betul.

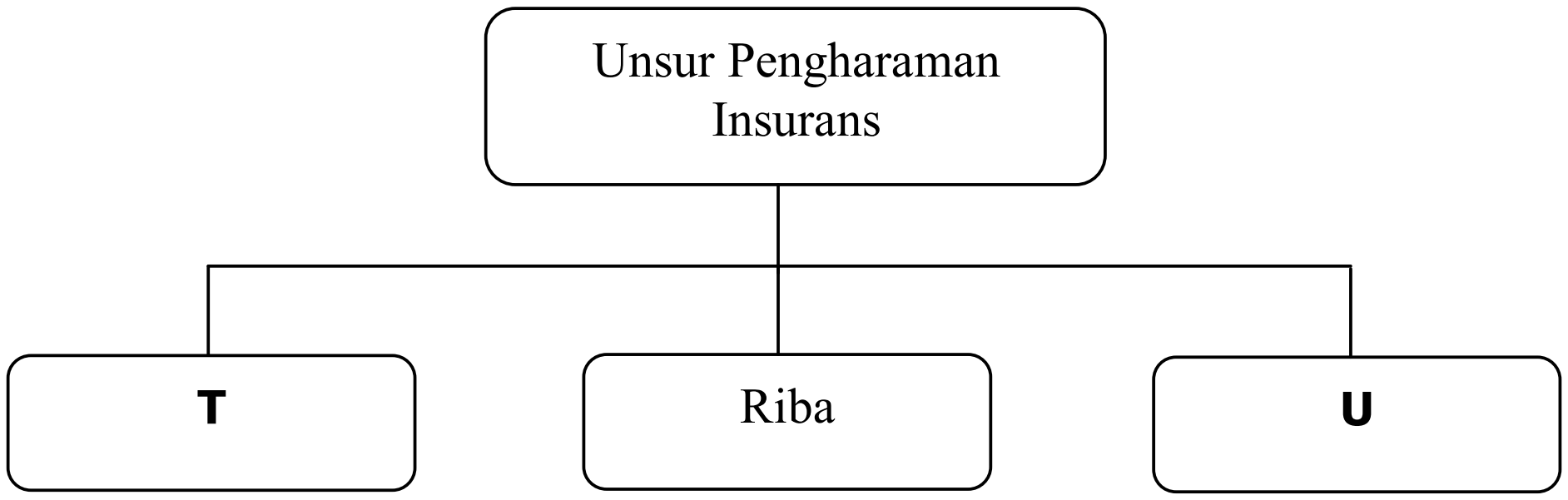

30 **T** dalam rajah di atas merujuk kepada ....

31 **U** dalam rajah di atas merujuk kepada ....

1223/1 © 2010 Hak Cipta Sekolah Berasrama Penuh

Dapatkan Skema Jawapan di : www.banksoalanspm.com

32 .... ialah perkhidmatan yang disediakan untuk kegunaan orang ramai.

33 Khidmat nasihat bagi menyelesaikan masalah suami isteri merupakan satu daripada peranan ....

34 Imam Ahmad bin Hanbal Radiallahuanhu digelar .... kerana telah menghafaz lebih daripada 700,000 buah hadis

Soalan 35 hingga **soalan 36** adalah berdasarkan pernyataan berikut**:**

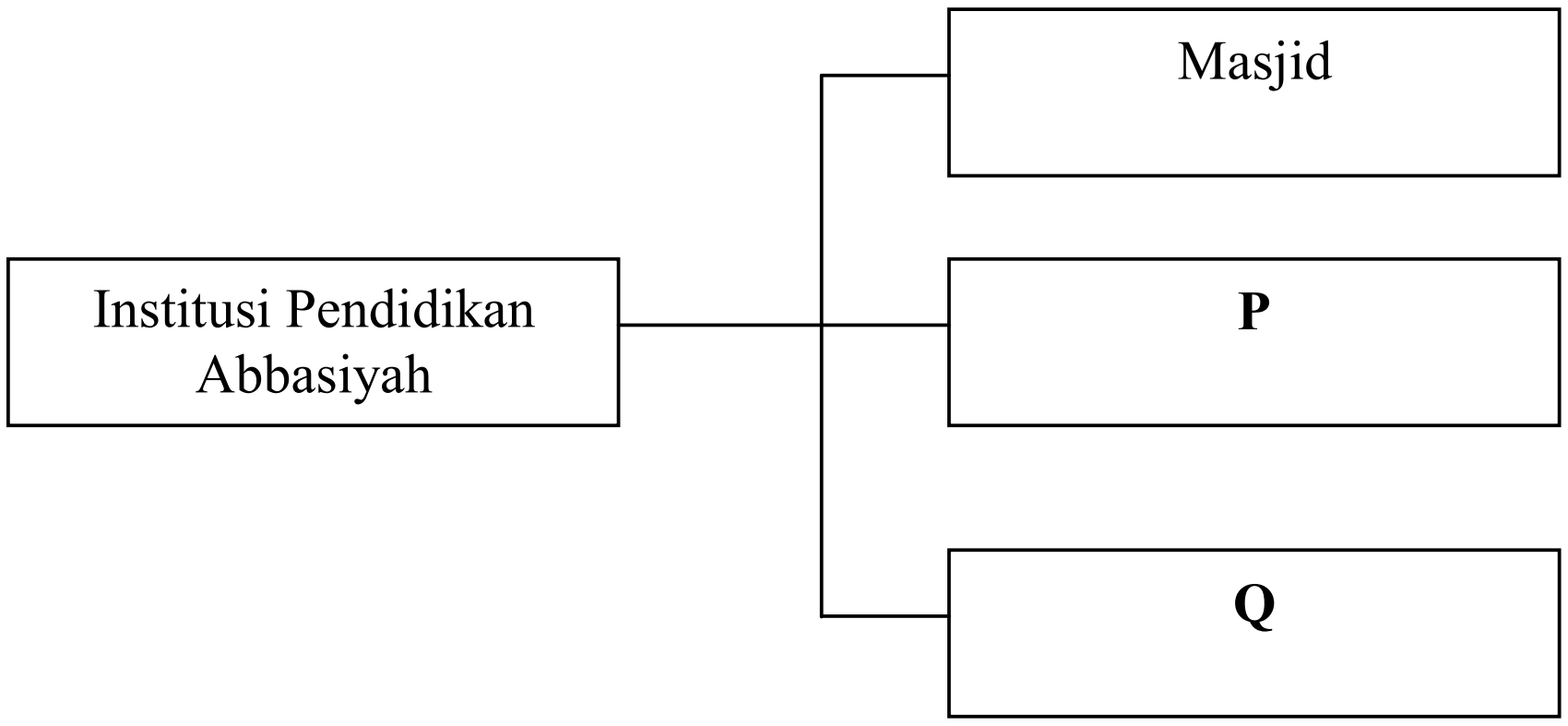

35 **P** merujuk kepada ....

36 **Q** merujuk kepada ....

37 Al-Muqadimah merupakan karya terbaik ....

38 .... yang paling utama ialah perjuangan menegakkan agama Allah

39 Dua anggota badan yang boleh dilihat oleh bakal suami semasa peminangan ialah .... dan tangan.

40 Orang yang murtad boleh dihukum .... sekiranya mereka enggan kembali kepada Islam

1223/1 © 2010 Hak Cipta Sekolah Berasrama Penuh

Dapatkan Skema Jawapan di : www.banksoalanspm.com

Bahagian B

[60 *markah*]

Jawab **tiga** soalan: **Soalan 1**, **Soalan 2** dan mana-mana **satu** soalan berikutnya.

1 (*a*) Qadiani merupakan ajaran sesat yang semakin tersebar luas di Malaysia

(i) Siapakah pengasas ajaran Qadiani. [2 *markah*]

(ii) Jelaskan **dua** ciri kesesatan ajaran Qadiani. [4 *markah*]

(iii) Terangkan **dua** langkah yang sewajarnya diambil untuk menangani ajaran sesat [4 *markah*]

(*b*) Anak yatim merupakan golongan yang wajib perhatian dan perlindungan oleh masyarakat.

(i) Apakah maksud anak yatim? [2 *markah*]

(ii) Jelaskan **dua** kewajipan terhadap anak yatim. [4 *markah*]

(iii) Huraikan sebab-sebab dilarang memakan harta anak yatim. [4 *markah*]

2 (*a*) Umat Islam diwajibkan menyembelih binatang dengan tujuan dimakan dagingnya.

(i) Nyatakan maksud sembelihan. [2 *markah*]

(ii) Jelaskan **dua** syarat sah sembelihan. [4 *markah*]

(iii) Jelaskan hukum dan alasan bagi situasi berikut.

a) Pak Cik Mat telah memberi sebahagian daging korban kepada Lee Chong Wei

b)Ahmad menyembelih ayam dengan menggunakan tulang

[4 *markah*]

(*b*) Suami sebagai ketua keluarga merupakan tonggak kebahagiaan dalam rumahtangga

(i) Jelaskan **dua** tanggungjawab suami terhadap isteri. [4 *markah*]

(ii) Huraikan **dua** kesan pengabaian tanggungjawab suami terhadap keluarga. [4 *markah*]

(*c*) Jelaskan hubungan kerukunan rumahtangga dengan pembangunan ummah [2 *markah*]

Dapatkan Skema Jawapan di : www.banksoalanspm.com

3 (*a*) Kemajuan ekonomi kerajaan Abbasiyah banyak bergantung kepada keistimewaan yang dimiliki Kota Banghdad

(i) Jelaskan **dua** keistimewaan tersebut.
[4 *markah*]

(ii) Huraikan **dua** kesan pembangunan ekonomi terhadap rakyat.
[4 *markah*]

(*b*) Menzirahi jenazah merupakan satu tuntutan syarak

(i) Jelaskan **dua** amalan yang dilarang semasa menziarahi jenazah. [4 *markah*]

(ii) Terangkan **dua** hikmah menziarahi jenazah. [4 *markah*]

(*c*) Hamka merupakan ulama yang tersohor di Nusantara.

(i) Apakah nama sebenar beliau ?
[2 *markah*]

(ii) Senaraikan **dua** anugerah yang diterima oleh beliau.
[2 *markah*]

4 (*a*) Kerajaan Umayyah merupakan kesinambungan daripada pemerintahan Khulafa' Ar-Rasyidin

(i) Terangkan sejarah penubuhan kerajaan Bani Umayyah. [4 *markah*]

(ii) Jelaskan tindakan yang diambil oleh Khalifah Umar Abdul Aziz bagi memantapkan pentadbiran. [2 *markah*]

(iii) Huraikan dua faktor kejatuhan kerajaan Bani Umayyah [4 *markah*]

Dapatkan Skema Jawapan di : www.banksoalanspm.com

(*b*)

Gambar di atas menunjukkan sungai yang teruk tercemar dengan sampah sarap

(i) Berdasarkan gambar di atas, jelaskan kesan situasi tersebut kepada kehidupan manusia.

[4 *markah*]

(ii) Terangkan langkah yang boleh diambil bagi menyelesaikan masalah tersebut.

[4 *markah*]

(*c*) Huraikan **dua** sifat peribadi Imam Malik rahimahullah yang boleh dicontohi pelajar masa kini.

[2 *markah*]

. **KERTAS SOALAN TAMAT**

 © 2010 Hak Cipta Sekolah Berasrama Penuh

Dapatkan Skema Jawapan di : www.banksoalanspm.com

KERTAS JAWAPAN UNTUK BAHAGIAN A

NAMA : ____ TINGKATAN : ________________

NO. KAD PENGENALAN

						-			-				

ANGKA GILIRAN

1	A	B	C	D	**21**________________
2	A	B	C	D	**22**________________
3	A	B	C	D	**23**________________
4	A	B	C	D	**24**________________
5	A	B	C	D	**25**________________
6	A	B	C	D	**26**________________
7	A	B	C	D	**27**________________
8	A	B	C	D	**28**________________
9	A	B	C	D	**29**________________
10	A	B	C	D	**30**________________
11	A	B	C	D	**31**________________
12	A	B	C	D	**32**________________
13	A	B	C	D	**33**________________
14	A	B	C	D	**34**________________
15	A	B	C	D	**35**________________
16	A	B	C	D	**36**________________
17	A	B	C	D	**37**________________
18	A	B	C	D	**38**________________
19	A	B	C	D	**39**________________
20	A	B	C	D	**40**________________

Bahagian	Markah
A	
B	

Kod Pemeriksa

Dapatkan Skema Jawapan di : www.banksoalanspm.com